１００より大きい数 ６

No.　3

年　組　名前

1　□に　あてはまる　数を　書きましょう。

① 100を　5　こ，10を　2　こ，１を　6　こ　あわせた　数は，□です。

② 100を　3　こ，１を　2　こ　あわせた　数は，□です。

③ 10を 47 こ　あつめた　数は，□です。

④　990　は　1000　より□小さい数です。

⑤　1000　より 20 小さい　数は，□です。

2　□の中に数字を書きましょう。

①

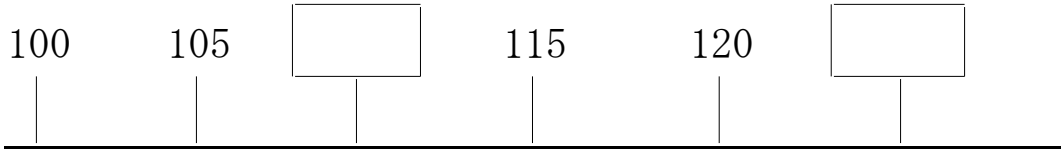

②

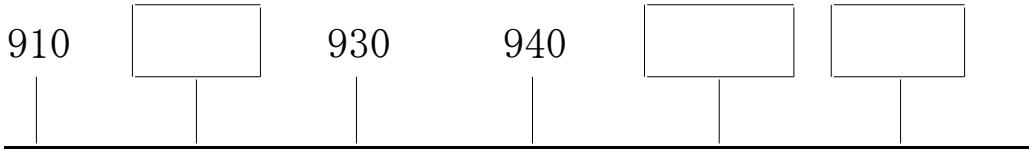

③

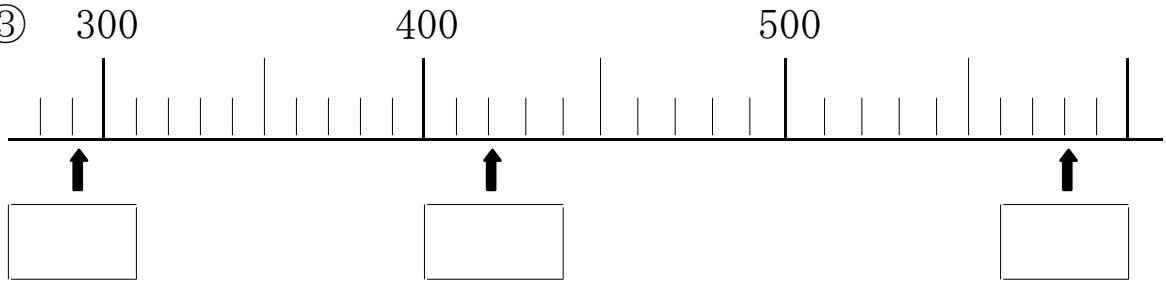

答え

1　①　526　②　302　③　470　④　10

⑤　980

2　①　110　,　125

②　920　,　950　,　960

③　290　,　420　,　580